Doğada su döngüsü

Aşağıdaki cümleleri dikkatlice okuyunuz . Cümleler doğru ise " D " yanlış ise " Y " yazınız.

1. Çevremizdeki denizler, dereler ve göller yeryüzündeki suları oluşturur. (.....)
2. Dünyamızın büyük bir bölümü sudur. (.....)
3. Yeryüzündeki sular sıcaklığın etkisiyle buharlaşır. (.....)
4. Buharlaşan su gökyüzüne doğru yükselir. (.....)
5. Kışın buharlaşma olmaz. (.....)
6. Su buharları birikerek bulutları oluşturur. (.....)
7. Bulutlar gökyüzünde soğuk hava tabakasıyla karşılaşır. (.....)
8. Soğuk hava tabakasıyla karşılaşan bulutlarda yağışlar başlar. (.....)
9. Su buharı yağmur , dolu ve kar olarak yeryüzüne geri döner. (.....)
10. Suyun döngüsü sürekli olarak devam eder. (.....)
11. Canlıların hayatlarını devam ettirebilmeleri için su yeterlidir. (.....)
12. Buharlaşan sular doğada yok olup gider. (.....)
13. Yeryüzündeki sular güneşin etkisiyle buharlaşır. (.....)
14. Buhar bir gazdır. (.....)
15. Su , doğada katı sıvı ve gaz halde bulunur. (.....)
16. Suyun katı hali buzdur. (.....)
17. Suyun gaz hali su buharıdır. (.....)
18. Rüzgar bulutların yer değiştirmesini sağlar. (.....)

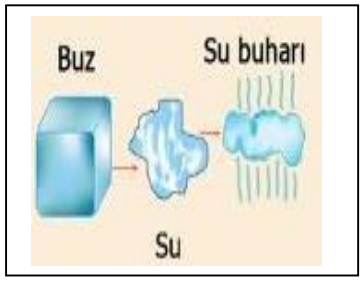



Yukarıdaki resmi dikkatli inceleyiniz. Suyun yeryüzündeki hareketini - döngüsünü yazınız.

.....

.....

.....

.....

.....

.....

.....

.....

Aşağıda verilen görseli su döngüsüne göre boyayınız.